25 ඒකකය - ඝන වස්තු

- **සමචතුරස්‍ර පිරමීඩය**

ඝන වස්තුව

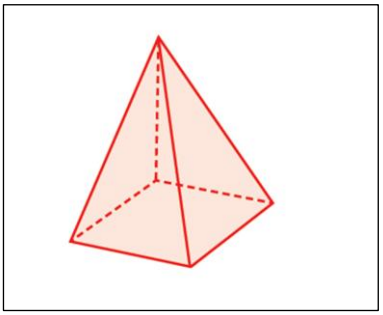

පතරම

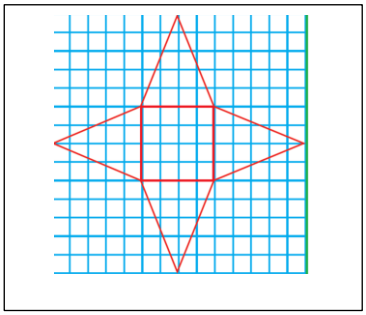

- **ත්‍රිකෝණ ප්‍රිස්මය**

ඝන වස්තුව

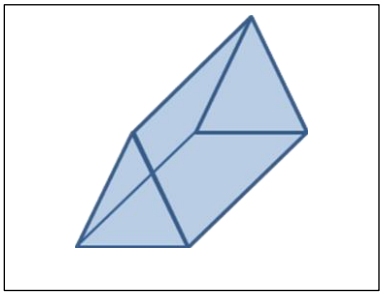

පතරම

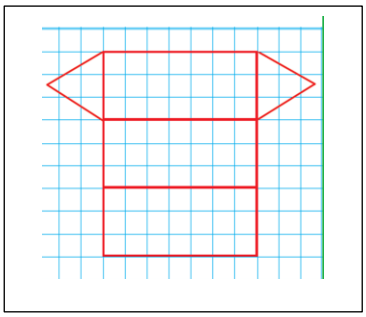

- ➢ ඉහත දක්වා ඇති එක් එක් ඝන වස්තුවේ පතරම ප්‍රමාණවත් කාඩබෝඩ් එකක පිටපත් කරගෙන සුදුසු පරිදි ඇලවුම් වාසි යොදා කපා ඇලවීම මගින් එම ඝන වස්තුවල ආකෘති සාදන්න.
- ➢ පහත දී ඇති වගුවේ හිස් තැන් සම්පූර්ණ කරන්න.

ඝන වස්තුවේ නම	මූහුණත් ගණන	ශීර්ෂ ගණන	දාර ගණන
ඝනකය			
ඝනකාභය			
සවිධි චතුස්තලය			
සමචතුරස්‍ර පිරමීඩය			
ත්‍රිකෝණ ප්‍රිස්මය			

- 25.4 යටතේ දක්වා ඇති ඔයිලර් සම්බන්ධය යන පාඩම් කොටස හොඳින් අධ්‍යනය කරන්න.
- 25.2 අභ්‍යාසය යටතේ ඇති ප්‍රශ්න සඳහා පිළිතුරු සපයන්න.