- *මේ කාලය තුළ සෑම විෂයක්ම පුණරීක්ෂණයේ යෙදෙමින් අධ්‍යාපන කටයුතු වළ නිරතවීම ඔබගේ වගකීමකි.*
- *මෙම කාර්යය සඳහා ඔබට සතියක කාලයක් ලැබේ.*
- විද්‍යුත් පැතුරුම්පත් පාඩමේ පිටු අංක 22 සිට 27 දක්වා අධ්‍යනය කරමින් පහත ක්‍රියාකාරකමෙහි නිරත වන්න.
- *ඔබේ පිළිතුරු හෝ නිර්මාණ **<u>හත්වන සතිය-ICT- ඔබේ නම හා ශ්‍රේණිය</u>** ලියන ලද අමුණන ලද ගොනුවක් සේ සකස්කරන්න.*

01. හිස් තැන් පුරවන්න.

A. විද්‍යුත් පැතුරුම්පතක ..... රාශියකින් වැඩපොතක් (Work book) නිර්මාණය වී ඇත.

B. වැඩපතක් ..... හා ..... රාශියකින් සමන්විත වේ.

C. වැඩපතක පේළියක් ..... හා තීරුවක් ..... වලින් නම් කරනු ලැබේ.

D. තීරුවක් හා පේළියක් එකතු වන ස්ථානය ..... ලෙස හැඳින්වේ.

E. කෝෂ ලිපිනයක් ලිවීමේදී කෝෂයේ තීරුවේ අක්ෂරය ..... ත් පේළියේ අංකය ..... ලියනු ලැබේ.

F. එක ළඟින් ඇති කෝෂ කිහිපයක් ..... නම් වේ.

(පේළි(Rows)/කෝෂපරාසයක්(Cellrange)/වැඩපත්(Worksheet)/තීරු(Column)/ඉලක්කම්/කෝෂයක්(Cell)/ දෙවනුව/ඉංග්‍රීසී හෝඩියේ අකුරු/පළමුව)

02. විද්‍යුත් පැතුරුම්පත් තුළ භාවිත කරන පහත සඳහන් ශ්‍රිත හා ඒවා භාවිතා කරනු ලබන අවස්ථාවන් ගලපන්න.

	<u>ශ්‍රිතය</u>	<u>භාවිතා කරන අවස්ථාව</u>
01	Sum	කෝෂ පරාසයක අඩුම අගය සෙවීමට
02	Max	කෝෂ පරාසයක එකතුව සෙවීමට
03	Average	කෝෂ පරාසයක වැඩිම අගය සෙවීමට
04	Min	කෝෂ පරාසයක සාමාන්‍යය සෙවීමට

03. විද්‍යුත් පැතුරුම්පත් වල භාවිතා වන පහත සඳහන් ප්‍රස්තාර වර්ග නම් කරන්න.

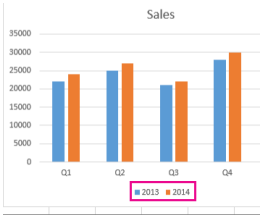

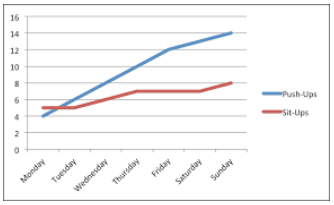

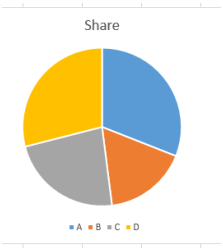

....

(රේඛා ප්‍රස්තාර-Line chart/වට ප්‍රස්තාර-Pie chart/තීරු ප්‍රස්තාර-column chart)